α の n 乗根

[p.123—125]

n 次方程式 $w^n=\alpha$ を満たす解 w のことを複素数 α の n乗根 (n-th root) という．
この w の値は n 個ある．また，記号 $\alpha^{\frac{1}{n}}$ で表す．

5a　複素数 α の n 乗根を求めよ．　(一般的な表式)

[p.124]

[解] n 次方程式 $w^n=\alpha$ を解く．$w=\rho e^{i\varphi}$ とおく．
また右図のように $\alpha=r(\cos\theta+i\sin\theta)=re^{i\theta}$ とする．

$\therefore (\rho e^{i\varphi})^n=re^{i\theta}$,　　$\therefore \rho^n(e^{i\varphi})^n=re^{i\theta}$,
ド・モアブルの定理より，$\rho^n e^{in\varphi}=re^{i0}$.

$$\therefore \begin{cases} \rho^n=r \\ n\varphi=\theta+2k\pi \end{cases} \qquad (k=0,\pm1,\pm2,\cdots).$$

$$\therefore \begin{cases} \rho=r^{\frac{1}{n}}=\sqrt[n]{r} \\ \varphi=\dfrac{\theta}{n}+\dfrac{2k\pi}{n} \end{cases} \qquad (k=\overbrace{0,1,2,\cdots,n-1}^{n\text{個}})$$

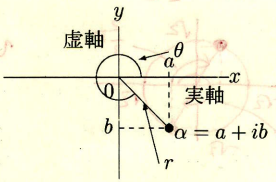

図：α の絶対値と偏角 (極形式)

$$\therefore w\left(=\alpha^{\frac{1}{n}}\right)=\sqrt[n]{r}e^{i\left(\frac{\theta}{n}+\frac{2k\pi}{n}\right)}=\sqrt[n]{r}\exp\left(i\left(\frac{\theta}{n}+\frac{2k\pi}{n}\right)\right)$$

$$\therefore w\left(=\alpha^{\frac{1}{n}}\right)=\sqrt[n]{r}\left\{\cos\left(\frac{\theta}{n}+\frac{2k\pi}{n}\right)+i\sin\left(\frac{\theta}{n}+\frac{2k\pi}{n}\right)\right\}, \qquad (k=\overbrace{0,1,2,\cdots,n-1}^{n\text{個}})$$

注：$\alpha^{\frac{1}{n}}$ は n 個ある．実数 r $(r\geq 0)$ の n 乗根 $r^{\frac{1}{n}}=\sqrt[n]{r}$ は 1 個のみと考える．

関連問題 [p.125 1.][p.131 4.]

5b (1) 複素数 $\sqrt{2}+\sqrt{6}i$ を複素平面上に描き，極形式を求めよ．
(2) $\sqrt{2}+\sqrt{6}i$ の 4 乗根 w が満たす方程式を書き，$w=\rho e^{i\phi}$ とおき，その方程式を極形式に直せ．
(3) w の絶対値と偏角を求め，w を極形式ですべて求めよ．
(4) w を複素平面上に描き，通常の $a+ib$ の形で表せる数はその形に直せ．

(1) $\sqrt{2}+\sqrt{6}i=2\sqrt{2}e^{i\frac{\pi}{3}}$

(2) $w^4=\sqrt{2}+\sqrt{6}i$
$(\rho e^{i\varphi})^4=2\sqrt{2}e^{i\frac{\pi}{3}}$,　$\rho^4 e^{i4\varphi}=2\sqrt{2}e^{i\frac{\pi}{3}}$

(3) $\begin{cases} \rho^4=2\sqrt{2}=\sqrt{8}=8^{\frac{1}{2}} \\ 4\varphi=\frac{\pi}{3}+2k\pi \quad (k=0,\pm1,\pm2,\cdots) \end{cases}$

$\begin{cases} \rho=8^{\frac{1}{8}}=\sqrt[8]{8} \\ \varphi=\frac{\pi}{12}+\frac{k\pi}{2} \quad (k=\overbrace{0,1,2,3}^{4\text{個}}) \end{cases}$

$=\frac{\pi}{12},\frac{7}{12}\pi,\frac{13}{12}\pi,\frac{19}{12}\pi$

$w=\left\{\sqrt[8]{8}e^{i\frac{\pi}{12}},\ \sqrt[8]{8}e^{i\frac{7}{12}\pi},\ \sqrt[8]{8}e^{i\frac{13}{12}\pi},\ \sqrt[8]{8}e^{i\frac{19}{12}\pi}\right.$

(4)
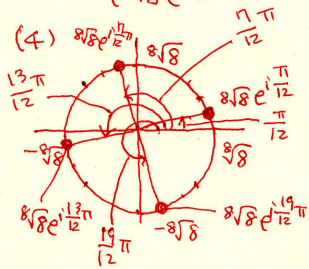

中心0半径$\sqrt[8]{8}$の円を4等分した点．

関連問題 [p.125 1.][p.131 4.]

5c 前問 5b と同様の手順で，$-1-\sqrt{3}i$ の平方根，$-8i$ の3乗根，$1-i$ の3乗根を求めよ．

(1)

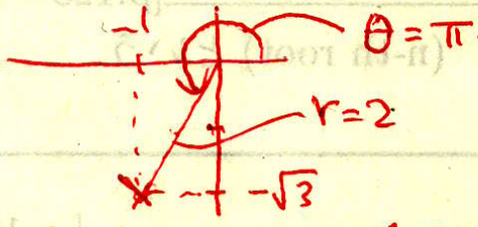

$\theta=\pi+\frac{\pi}{3}=\frac{4}{3}\pi$

$-1-\sqrt{3}i=2e^{i\frac{4}{3}\pi}$

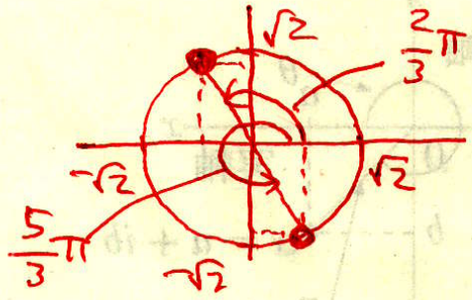

(2) $w^2=-1-\sqrt{3}i$

$(\rho e^{i\varphi})^2=2e^{i\frac{4}{3}\pi}$　$\rho^2e^{i2\varphi}=2e^{i\frac{4}{3}\pi}$

(3)
$$\begin{cases}\rho^2=2\\ 2\varphi=\frac{4}{3}\pi+2k\pi\end{cases}$$

$\rho=\sqrt{2}$

$\varphi=\frac{2}{3}\pi+k\pi$ (k=0,1)　2個

$=\frac{2}{3}\pi,\frac{5}{3}\pi$

$$w=\begin{cases}\sqrt{2}e^{i\frac{2}{3}\pi}\\ \sqrt{2}e^{i\frac{5}{3}\pi}\end{cases}$$

$=\sqrt{2}\left(\cos\frac{2}{3}\pi+i\sin\frac{2}{3}\pi\right)=\sqrt{2}\,\frac{-1+\sqrt{3}i}{2}$

$=\sqrt{2}\left(\cos\frac{5}{3}\pi+i\sin\frac{5}{3}\pi\right)=\sqrt{2}\,\frac{1-\sqrt{3}i}{2}$

(4)

$-1+\sqrt{3}i$ の3乗根

$-1+\sqrt{3}i=2e^{i\frac{2}{3}\pi}$

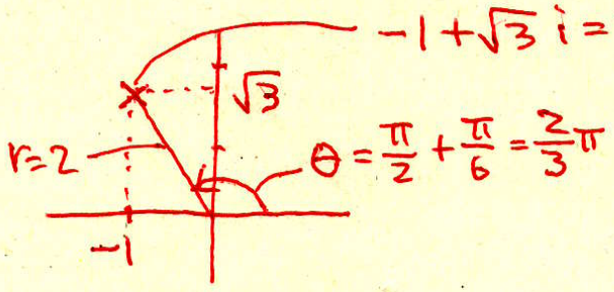

$w^3=-1+\sqrt{3}i$

$(\rho e^{i\varphi})^3=2e^{i\frac{2}{3}\pi}$　$\rho^3e^{i3\varphi}=2e^{i\frac{2}{3}\pi}$

$$\begin{cases}\rho^3=2\\ 3\varphi=\frac{2}{3}\pi+2k\pi\end{cases}$$

$$\begin{cases}\rho=\sqrt[3]{2}\\ \varphi=\frac{2}{9}\pi+\frac{2k\pi}{3}\end{cases}$$ (k=0,1,2)

$=\frac{2}{9}\pi,\frac{8}{9}\pi,\frac{14}{9}\pi$

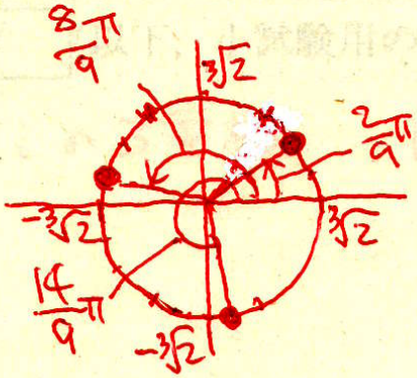

$$w=\begin{cases}\sqrt[3]{2}e^{i\frac{2}{9}\pi}\\ \sqrt[3]{2}e^{i\frac{8}{9}\pi}\\ \sqrt[3]{2}e^{i\frac{14}{9}\pi}\end{cases}$$